TRIATHLON MATH. Départemental - 2022-2023

Entrainement de GÉOMÉTRIE n°2

Fiche de réponses

Niveau I

ÉNIGME à 5 points : Napperon

C'est le découpage _____ qui permet de faire ce napperon.



A B C



ÉNIGME à 10 points : Jardi-codage

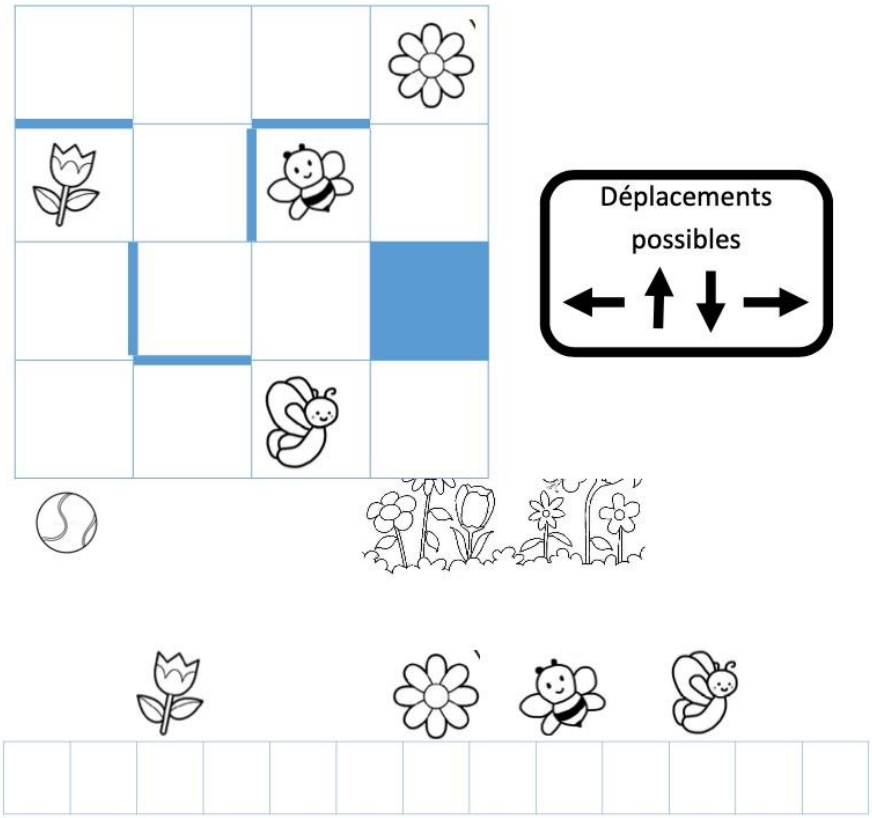

TRIATHLON MATH. Départemental - 2022-2023

Entrainement de GÉOMÉTRIE n°2

Fiche de réponses

Niveau II

ÉNIGME à 5 points : Napperon

C'est le découpage _____ qui permet de faire ce napperon.



A B C



ÉNIGME à 10 points : Jardi-codage

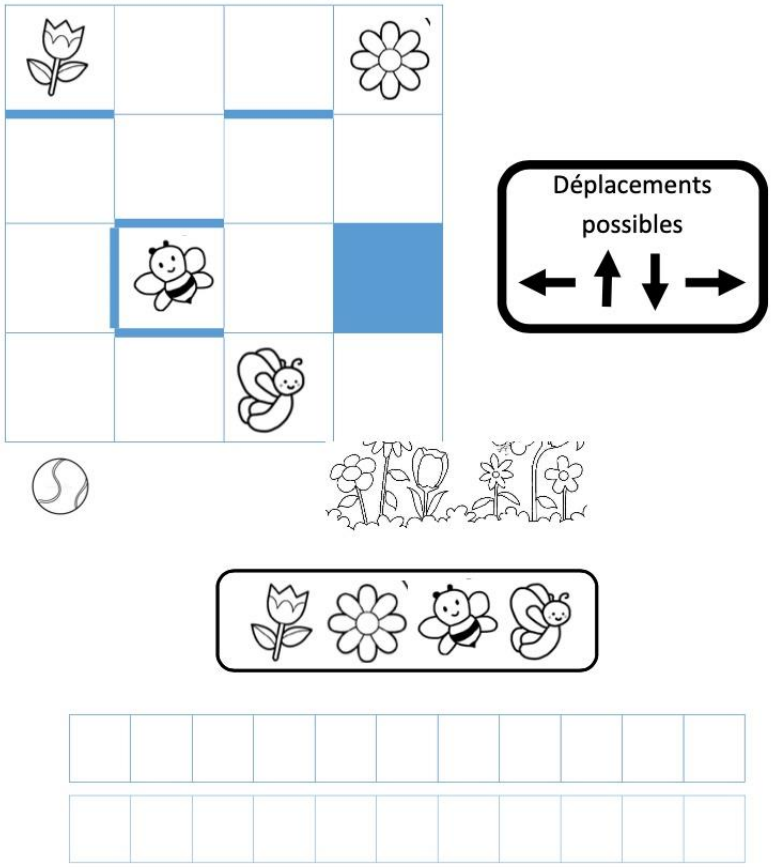

TRIATHLON MATH. Départemental - 2022-2023

Entrainement de GÉOMÉTRIE n°2

Fiche de réponses

Niveau III

ÉNIGME à 5 points : Napperon

C'est le découpage _____ qui permet de faire ce napperon.

A B C

ÉNIGME à 10 points : Jardi-codage

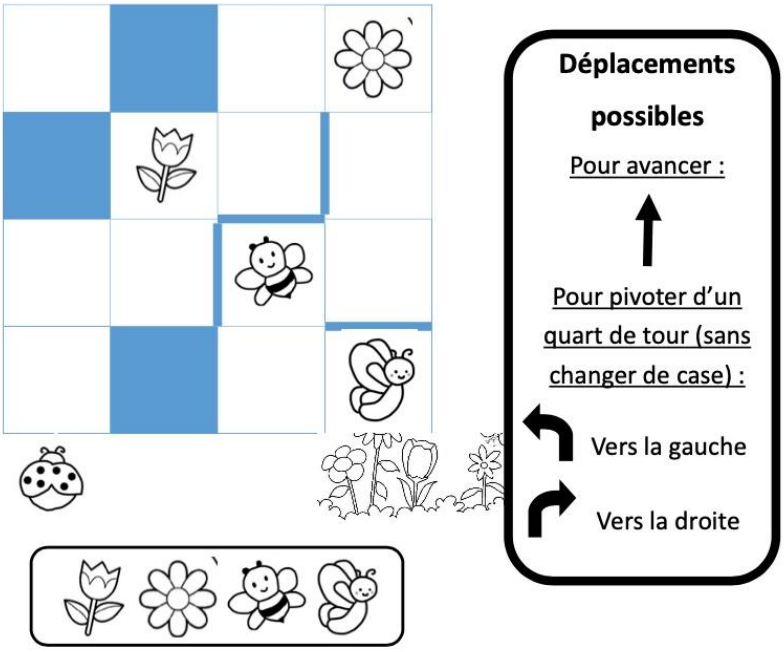



TRIATHLON MATH. Départemental - 2022-2023

Entrainement de GÉOMÉTRIE n°2

Fiche de réponses

Niveau IV

ÉNIGME à 5 points : Napperon

C'est le découpage _____ qui permet de faire ce napperon.



A

B



C
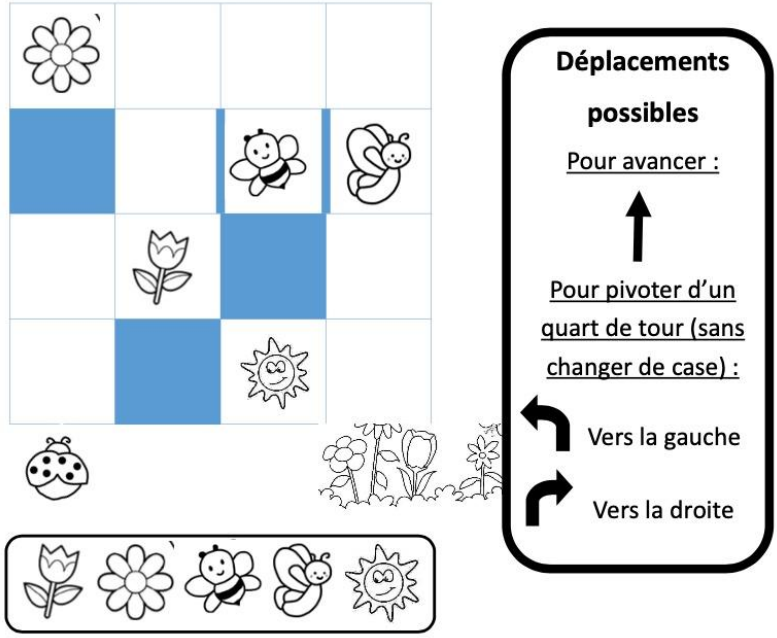
ÉNIGME à 10 points : Jardi-codage